CORRECTION

↳ *Compétence 1 : Je sais utiliser le vocabulaire géométrique en situation.*
↳ *Consigne 1 : Tu complètes au bout des flèches avec le vocabulaire donné :*

face – sommet - arête

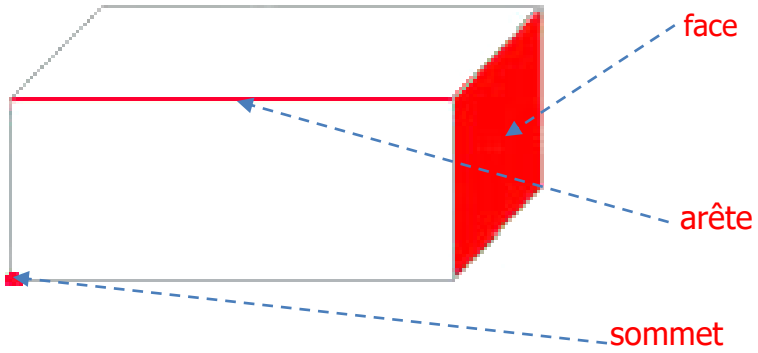

~~~~~~~~~~~~~~~~~~~~~~

↳ *Compétence 2 : Je sais reconnaître et décrire des solides simples.*
↳ *Consigne 2 : Tu écris sous chaque solide **cube** ou **pavé** et tu complètes le tableau.*

		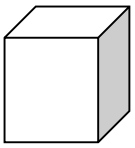
Nom des solides :	pavé droit	cube
Nombre de faces :	8	8
Nombre de sommets :	8	8
Nombre d'arêtes :	12	12

~~~~~~~~~~~~~~~~~~~~~~
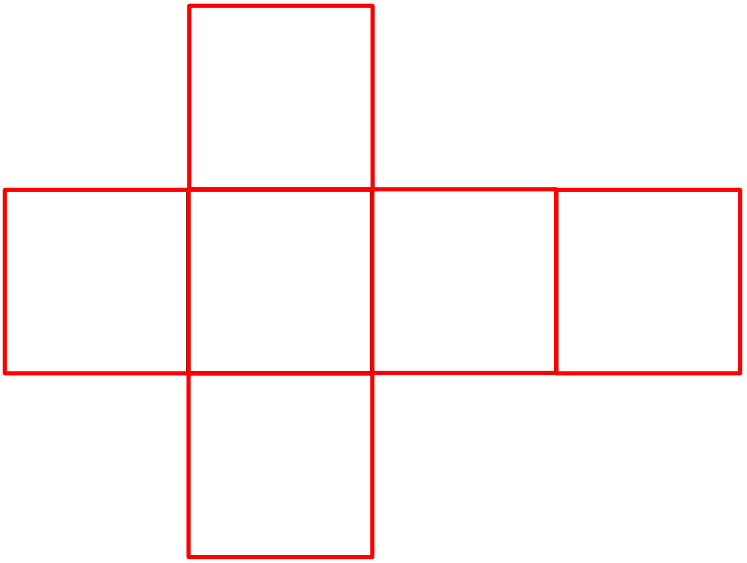
↳ *Compétence 3 : Je sais faire le patron d'un cube.*
↳ *Consigne 3 : Complète le patron pour obtenir un cube.*